Памятка по решению задач

1. Задачи на нахождение суммы.

На даче росли 4 куста смородины. Посадили ещё 6 кустов. Сколько всего кустов смородины на даче?

Рисунок:

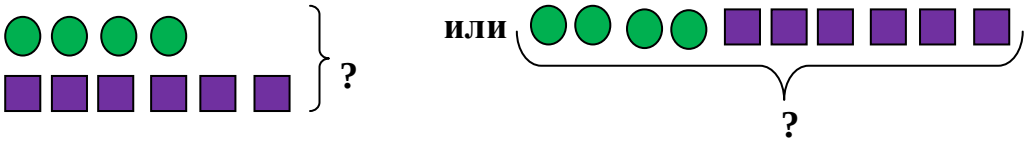

Краткая запись: Росли – 4 к.
Посад. – 6 к.
? к.

или Росли – 4 к.
Посад. – 6 к.
Всего - ? к.

Решение: 4 + 6 = 10 (к.)

Ответ: 10 кустов смородины всего.

2. Задачи на нахождение остатка:

В вазе было 10 яблок. 8 яблок съели. Сколько яблок осталось?

Рисунок:

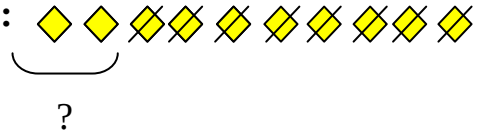

Краткая запись: Было – 10 яб.
Съели – 8 яб.
Ост. - ? яб.

Решение: 10 – 8 = 2 (яб.)

Ответ: 10 яблок осталось.

3. Задачи на увеличение (уменьшение) числа на несколько единиц.

а) На первом этаже 8 жильцов, а на втором этаже на 2 жильца больше . Сколько жильцов на втором этаже?

Рисунок:

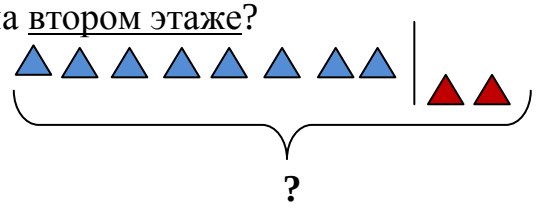

Краткая запись: I этаж – 8 ж.
II этаж - **?** на 2 ж. больше

Решение: 8 + 2 = 10 (ж.)

Ответ: 10 жильцов на 2-ом этаже.

б) На первом этаже 8 жильцов, а на втором этаже на 2 жильца больше . Сколько всего жильцов на двух этажах?

Рисунок:

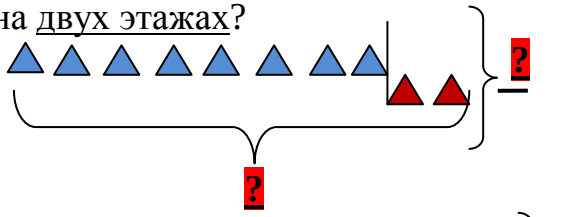

Краткая запись: I этаж – 8 ж.
II этаж - **?** на 2 ж. больше
?

Решение: 1) 8 + 2 = 10 (ж.) – на 2-ом этаже.
2) 8 + 10 = 18 (ж.)

Ответ: 18 жильцов всего на двух этажах.

в) На первом этаже 8 жильцов, а на втором этаже на 2 жильца меньше . Сколько жильцов на втором этаже? **Рисунок:** 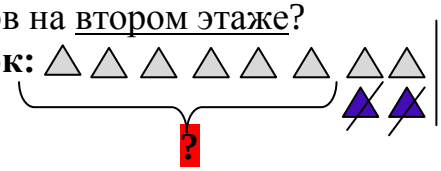 **Краткая запись:** I этаж – 8 ж. II этаж - ? на 2 ж. меньше **Решение:** 8 - 2 = 6 (ж.) **Ответ:** 6 жильцов на 2-ом этаже.	г) На первом этаже 8 жильцов, а на втором этаже на 2 жильца меньше . Сколько всего жильцов на двух этажах? **Рисунок:** 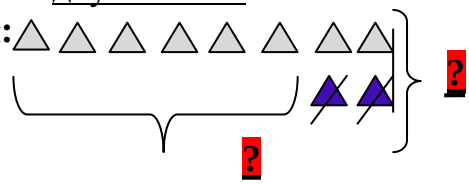 **Краткая запись:** I этаж – 8 ж. II этаж - ? на 2 ж. меньше **Решение:** 1) 8 - 2 = 6 (ж.) – на 2-ом этаже. 2) 8 + 6 = 14 (ж.) **Ответ:** 14 жильцов всего на двух этажах.

4. Задачи на нахождение неизвестного слагаемого.

а) Саша и Ваня поймали 10 карасей. Ваня поймал 4 карася. Сколько карасей поймал Саша?

Рисунок: 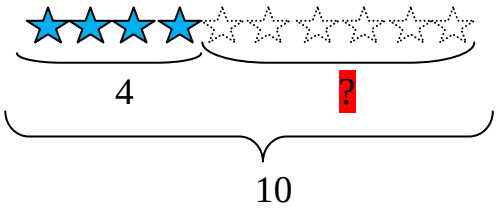

Краткая запись: Всего – 10 к.
Ваня – 4 к.
Саша - ? к.

Решение: 10 – 4 = 6 (к.)

Ответ: 6 карасей поймал Саша.

б) На стоянке было 7 машин. Когда несколько машин приехало, их стало 9. Сколько машин приехало?

Рисунок: 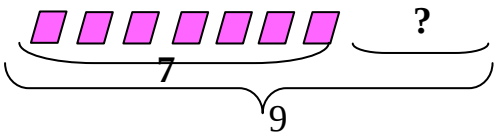

Краткая запись: Было – 7 м.
Стало - 9 м.
Приехало - ? м.

Решение: 9 – 7 = 2 (м.)

Ответ: 2 машины приехало.

5. Задачи на нахождение неизвестного вычитаемого.

В магазине на полке стояло 8 кукол. После того, как несколько кукол продали, на полке осталось 5 кукол. Сколько кукол продали?

Рисунок:

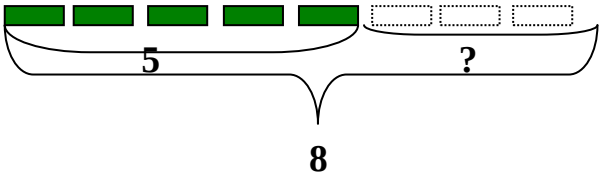

Краткая запись: Стояло – 8 к.
Осталось – 5 к.
Продали - ? к.

Решение: 8 – 5 = 3 (к.)

Ответ: 3 куклы продали.

6. Задачи на разностное сравнение.

Катя нашла 5 грибов, а Аня – 2 гриба. **На сколько** больше нашла грибов Аня, чем Катя?

Рисунок:

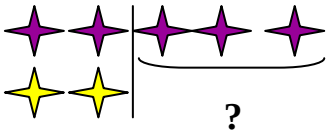

Краткая запись: Катя – 5 г.
Аня – 2 г. **на ? г.**

Решение: 5 – 2 = 3 (г.)

Ответ: на 3 гриба больше нашла Аня, чем Катя.